① Bezeichne die jeweils aufgelisteten Darstellungsvarianten anhand ihrer Projektion

- Bezeichne die jeweils aufgelisteten Darstellungsvarianten anhand ihrer Projektion
- Zeichne mit einer Farbe die Fluglinie von Argentinien Südamerika hin zu Norwegen (Europa) ungefähr ein.
- Zeichne mit einer weiteren Farbe die Fluglinie von Argentinien Südamerika hin zu Norwegen (Europa) ungefähr ein.

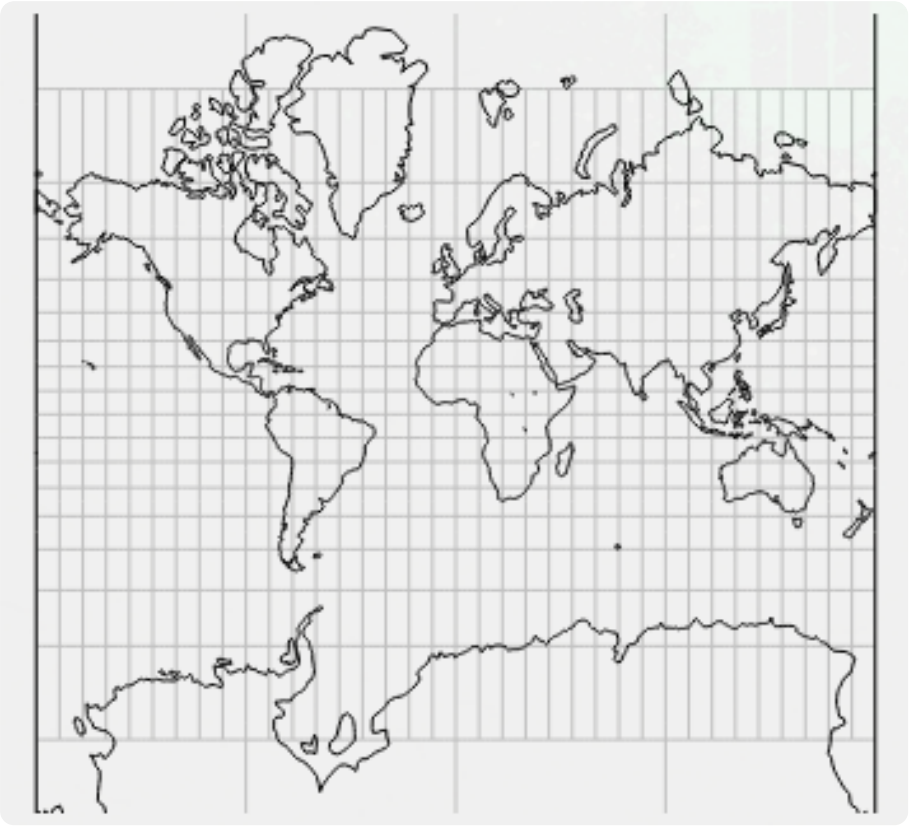

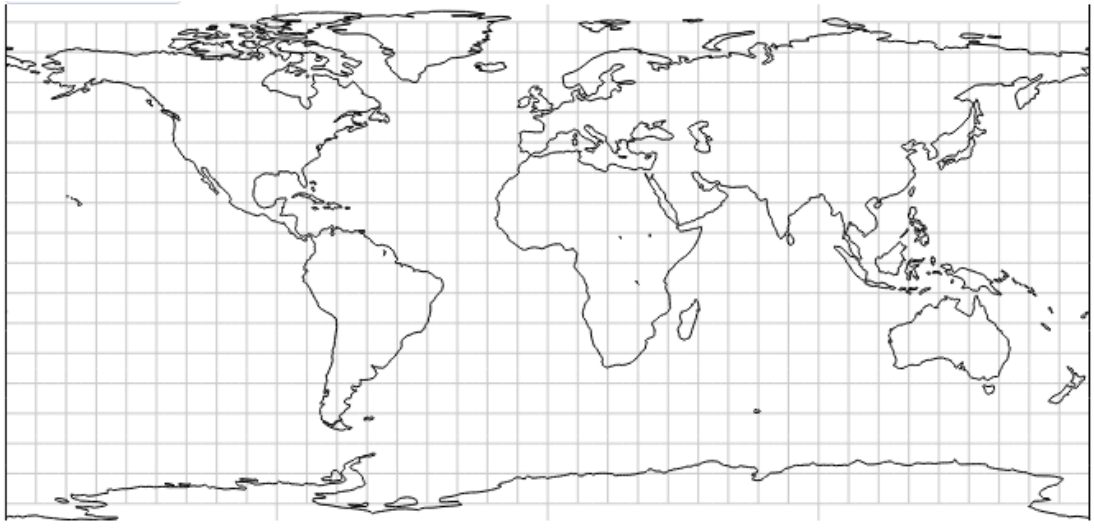

Angaben zu den Urhebern und Lizenzbedingungen der einzelnen Bestandteile dieses Dokuments finden Sie unter
https://www.tutory.de/entdecken/dokument/8c65bea9

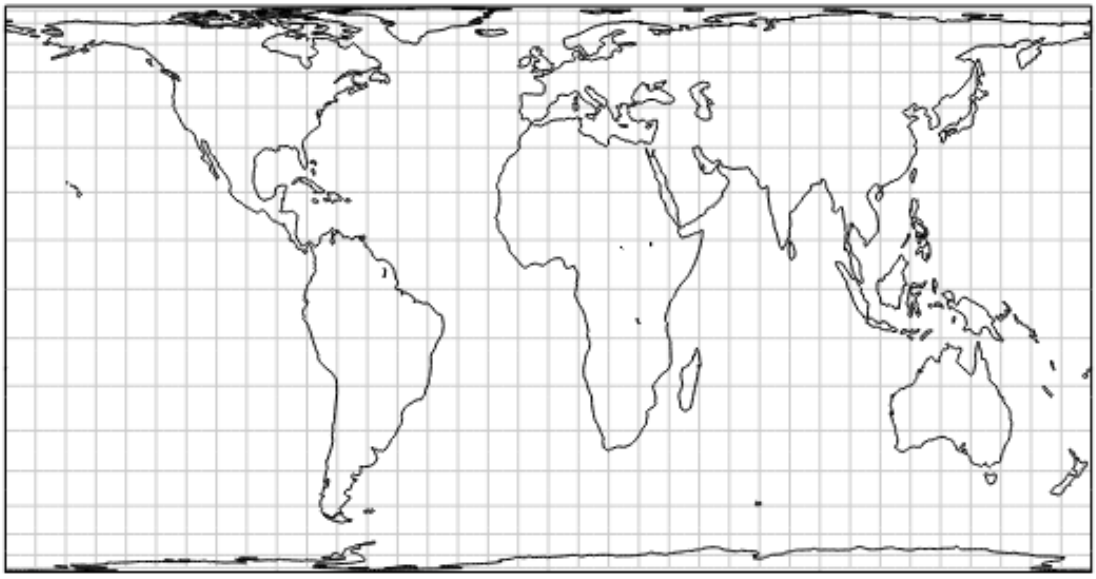

② Beschreibe die jeweilige Darstellungseigenschaften der drei Arten von Kartenprojektionen.

Angaben zu den Urhebern und Lizenzbedingungen der einzelnen Bestandteile dieses Dokuments finden Sie unter
https://www.tutory.de/entdecken/dokument/8c65bea9