Die Replikation

Schaut euch das Video an und bearbeitet die nachfolgenden Aufgaben.

① Benenne die drei hypotetischen Replikationsmechanismen in den Abbildungen unten und markiere deutlich den nachgewiesenen Replikationsmechanismus.

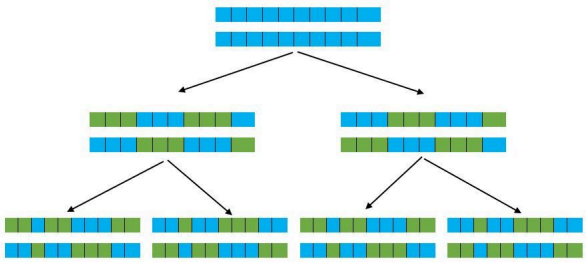

Abb. 1 — *C. Triller*

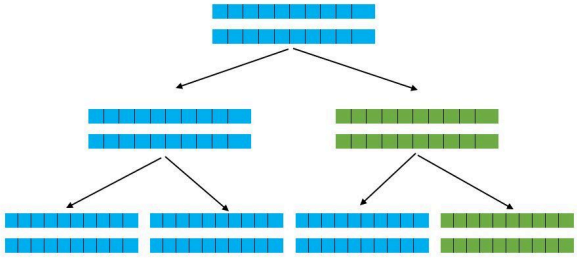

Abb. 2 — *C. Triller*

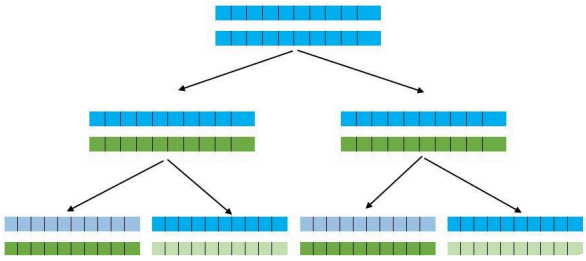

Abb. 3 - *C. Triller*

② Wie heißen die Entdecker des Replikationsmechanismus?

③ Wie muss in Abbildung 3 die nächste Generation aussehen? Zeichne sie unterhalb der Abbildung ein.
Gib eine kurze Erklärung.

Angaben zu den Urhebern und Lizenzbedingungen der einzelnen Bestandteile dieses Dokuments finden Sie unter
https://www.tutory.de/entdecken/dokument/df1abf1c