① Zeichne die Symmetrieachse ein!

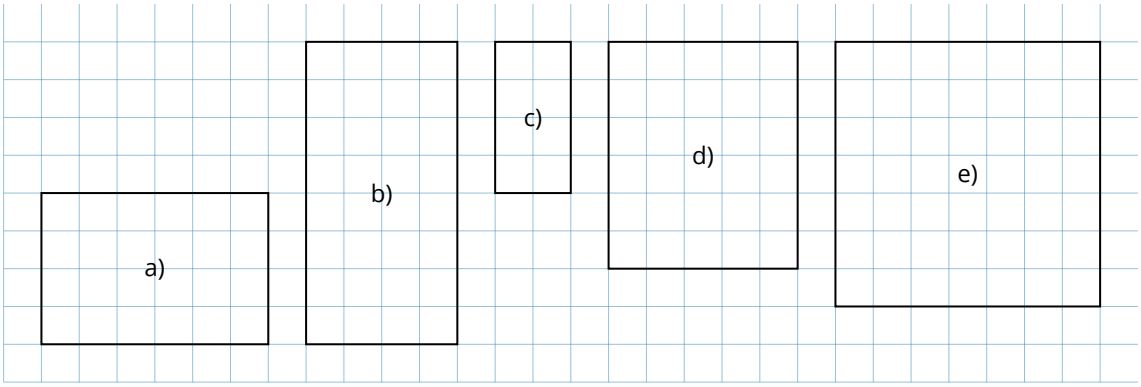

② Ergänze die Figur zu einer achsensymmetrischen Figur. Markiere und bezeichne die Bildpunkte.
Die rote Gerade ist die Symmetrieachse.

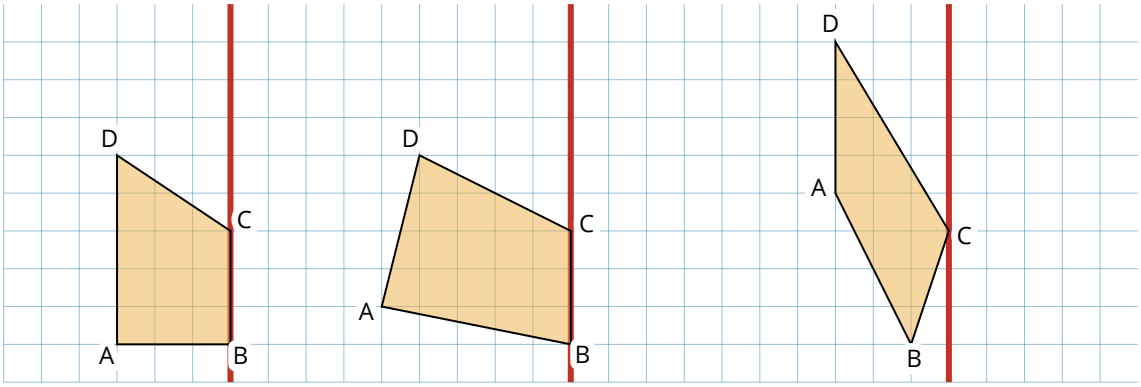

③ Ergänze die Figur zu einer achsensymmetrischen Figur. Markiere und bezeichne die Bildpunkte.
Die rote Gerade ist die Symmetrieachse.

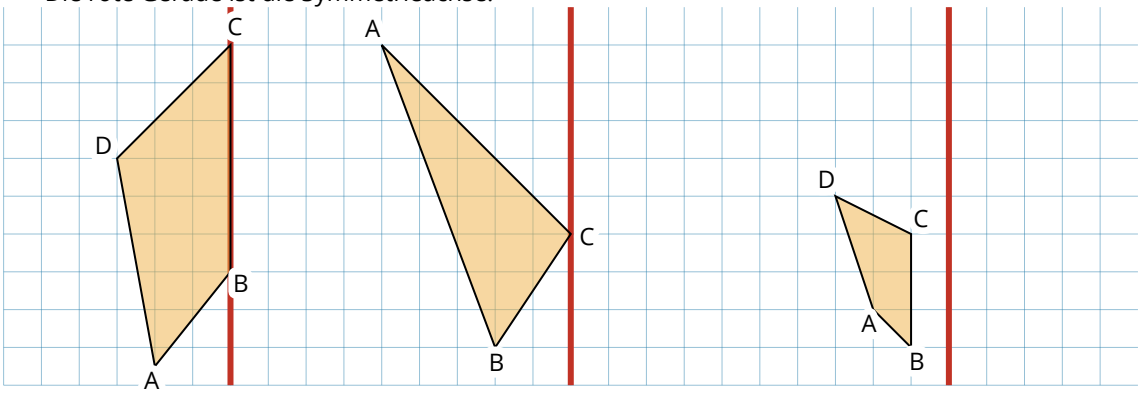

④ Ergänze die Figur zu einer achsensymmetrischen Figur. Markiere und bezeichne die Bildpunkte.
Die rote Gerade ist die Symmetrieachse.

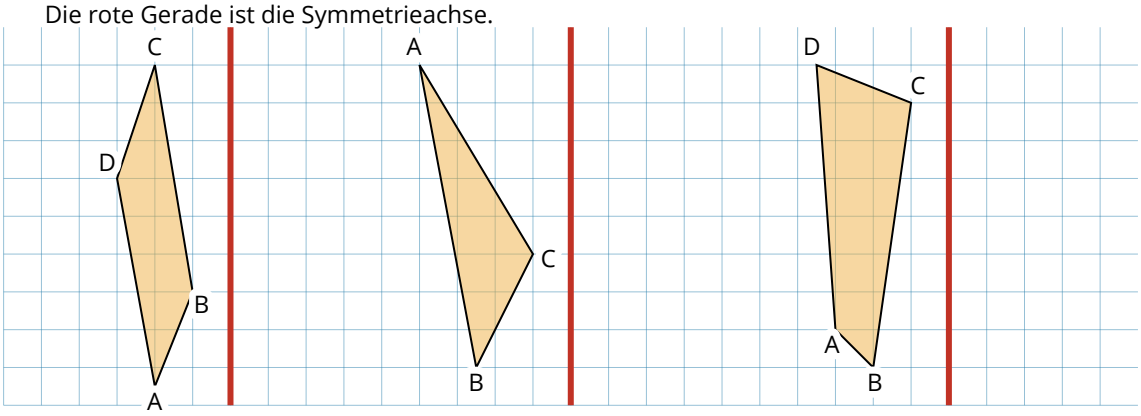

Angaben zu den Urhebern und Lizenzbedingungen der einzelnen Bestandteile dieses Dokuments finden Sie unter
https://www.tutory.de/entdecken/dokument/edf790ae

⑤ Ergänze die Figur zu einer achsensymmetrischen Figur. Markiere und bezeichne die Bildpunkte. Die rote Gerade ist die Symmetrieachse.

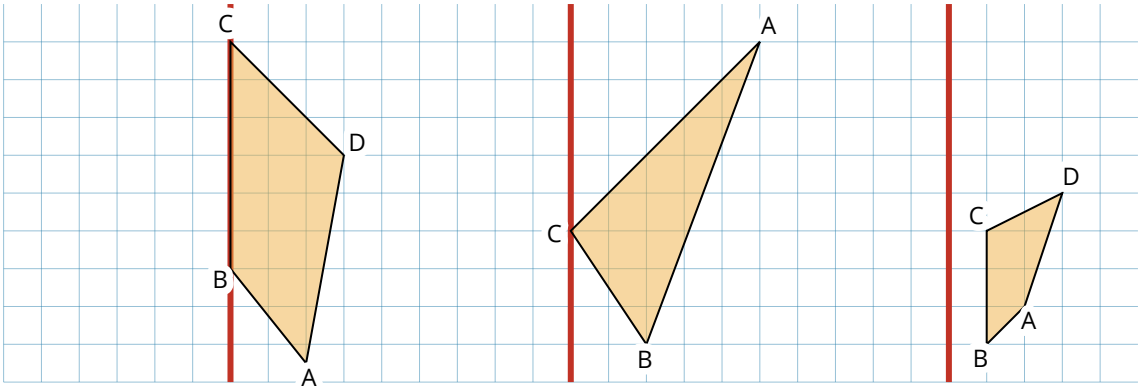

⑥ Ergänze die Figur zu einer achsensymmetrischen Figur. Markiere und bezeichne die Bildpunkte. Die rote Gerade ist die Symmetrieachse.

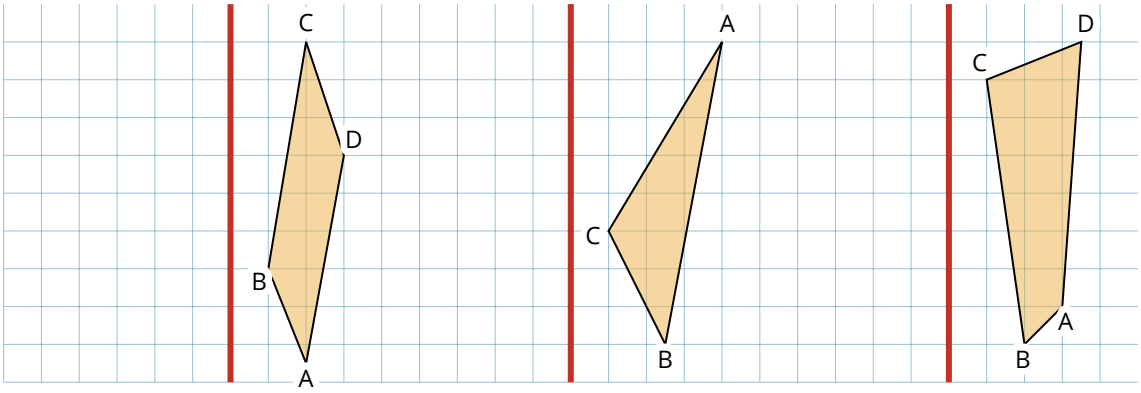

⑦ Ergänze die Figur zu einer achsensymmetrischen Figur. Markiere und bezeichne die Bildpunkte. Die rote Gerade ist die Symmetrieachse.

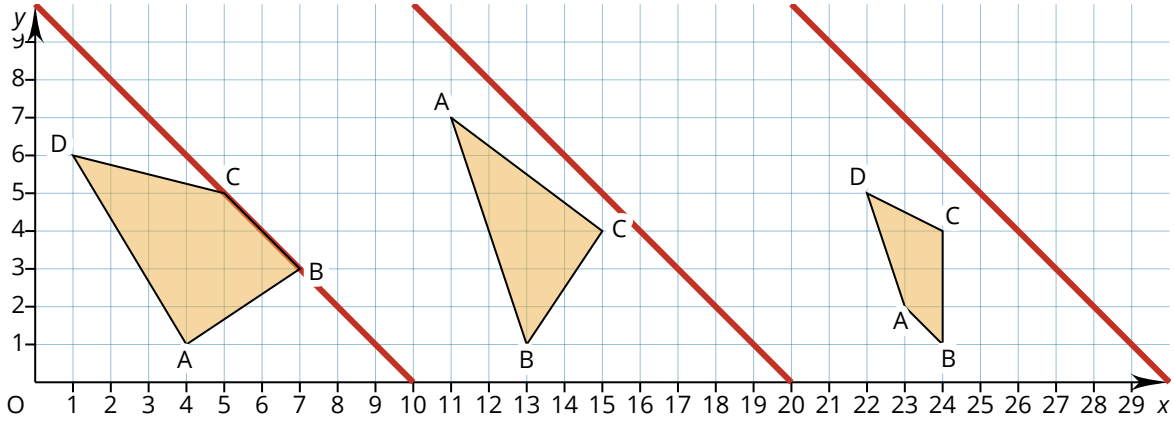

Angaben zu den Urhebern und Lizenzbedingungen der einzelnen Bestandteile dieses Dokuments finden Sie unter
https://www.tutory.de/entdecken/dokument/edf790ae

⑧ Ergänze die Figur zu einer achsensymmetrischen Figur. Markiere und bezeichne die Bildpunkte. Die rote Gerade ist die Symmetrieachse.

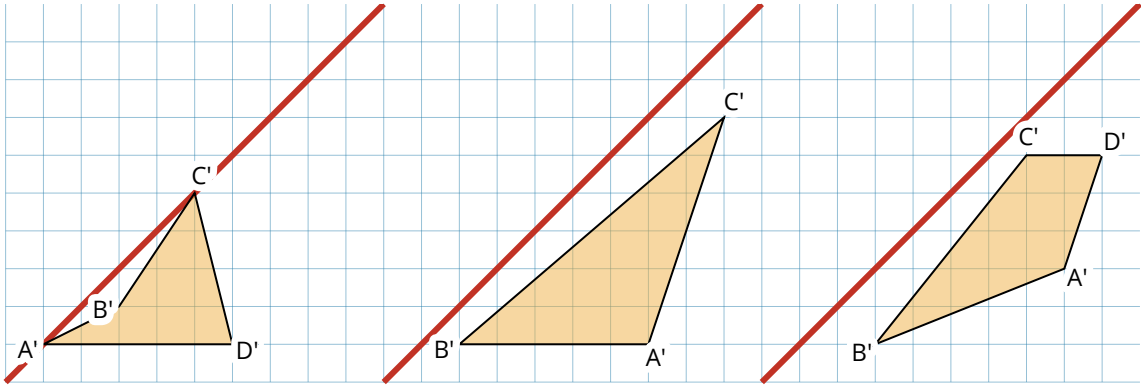

⑨ Ergänze die Figur zu einer achsensymmetrischen Figur. Markiere und bezeichne die Bildpunkte. Die rote Gerade ist die Symmetrieachse.

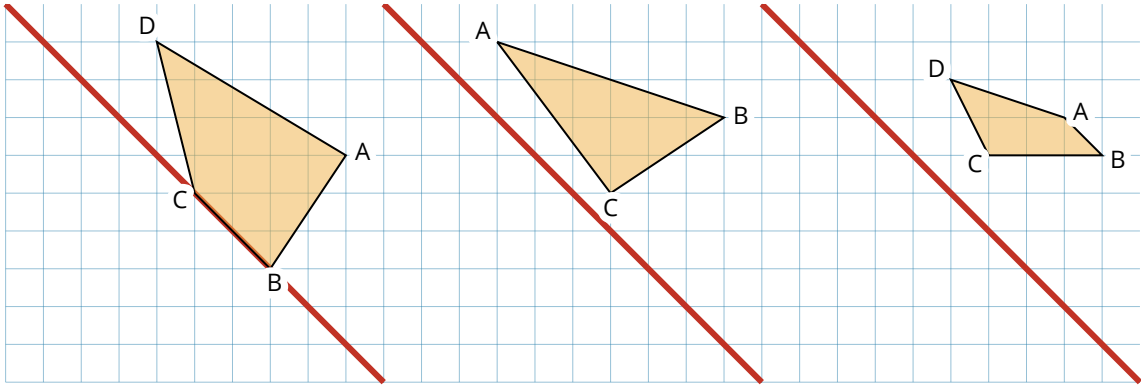

⑩ Ergänze die Figur zu einer achsensymmetrischen Figur. Markiere und bezeichne die Bildpunkte. Die rote Gerade ist die Symmetrieachse.

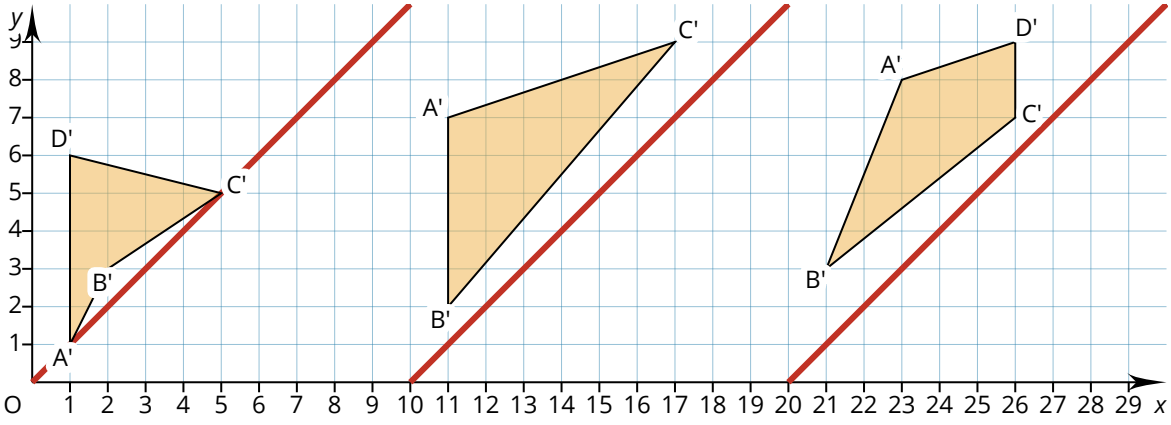

Angaben zu den Urhebern und Lizenzbedingungen der einzelnen Bestandteile dieses Dokuments finden Sie unter
https://www.tutory.de/entdecken/dokument/edf790ae