2. Katheten und Hypotenusen

Markiere in diesen rechtwinkligen Dreiecken die Katheten blau und die Hypotenuse rot!

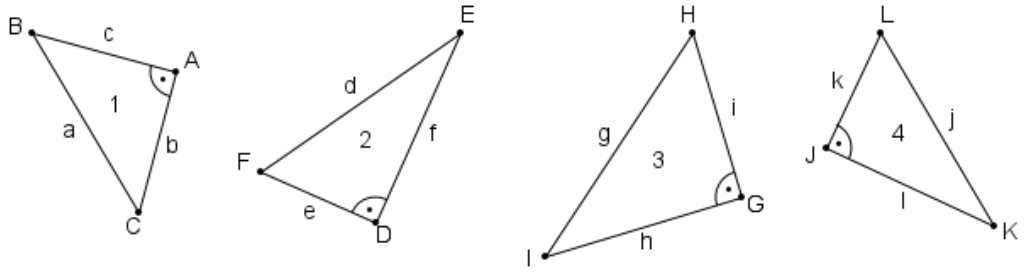

3. Satz des Pythagoras aufstellen

Stelle für diese rechtwinkligen Dreiecke den Satz des Pythagoras auf!

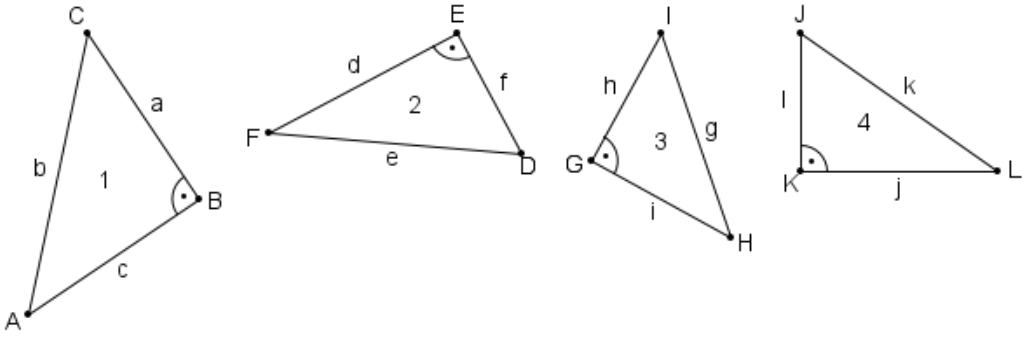

1.+2.+3. Gemischt

- Markiere alle rechten Winkel!
- Markiere in den rechtwinkligen Dreiecken die Katheten blau und die Hypotenuse rot!
- Stelle für die rechtwinkligen Dreiecke den Satz des Pythagoras auf!

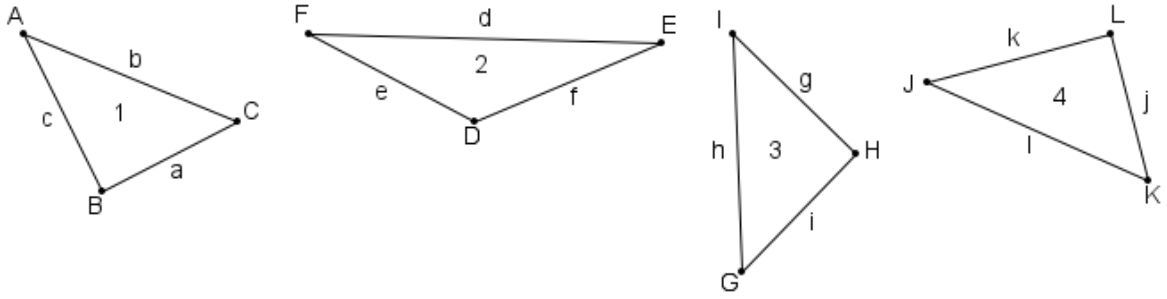

Angaben zu den Urhebern und Lizenzbedingungen der einzelnen Bestandteile dieses Dokuments finden Sie unter
https://www.tutory.de/entdecken/dokument/satz-des-pythagoras-4