E

Station

Strecke, Strahl oder Gerade?

Kreuze an, ob es sich um Strecken, Strahlen oder Geraden handelt. Die Buchstaben bei den richtigen Lösungen ergeben ein Lösungswort.

A
- F Strecken
- K Strahlen
- R Geraden

B
- I Strecken
- O Strahlen
- R Geraden

C
- A Strecken
- R Strahlen
- S Geraden

D
- C Strecken
- I Strahlen
- D Geraden

E
- K Strecken
- E Strahlen
- H Geraden

F
- T Strecken
- O Strahlen
- L Geraden

A	B	C	D	E	F

Lösungswort:

E

Station

Ecken geometrischer Körper

Bestimme die Anzahl der Ecken der abgebildeten Körper. Die Buchstaben der richtigen Lösungen ergeben das Lösungswort.

A

- L 2
- B 0
- P 1

B

- O 1
- A 0
- R 2

C
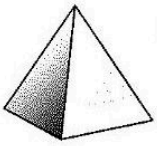
- L 5
- N 4
- D 3

D
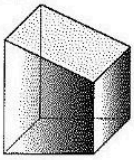
- A 8
- D 9
- R 7

E
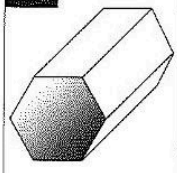
- I 10
- M 11
- S 12

F
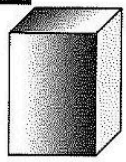
- L 7
- T 8
- A 9

A	B	C	D	E	F

Lösungswort:

Angaben zu den Urhebern und Lizenzbedingungen der einzelnen Bestandteile dieses Dokuments finden Sie unter
https://www.tutory.de/entdecken/dokument/stationenlernen-mathematik-5-xv

Angaben zu den Urhebern und Lizenzbedingungen der einzelnen Bestandteile dieses Dokuments finden Sie unter
https://www.tutory.de/entdecken/dokument/stationenlernen-mathematik-5-xv