Station

P

Maßstab

Der Grundriss des Hauses ist im Maßstab 1 : 100 gezeichnet.
Ihr schafft es sicherlich, ein paar Fragen zu beantworten.

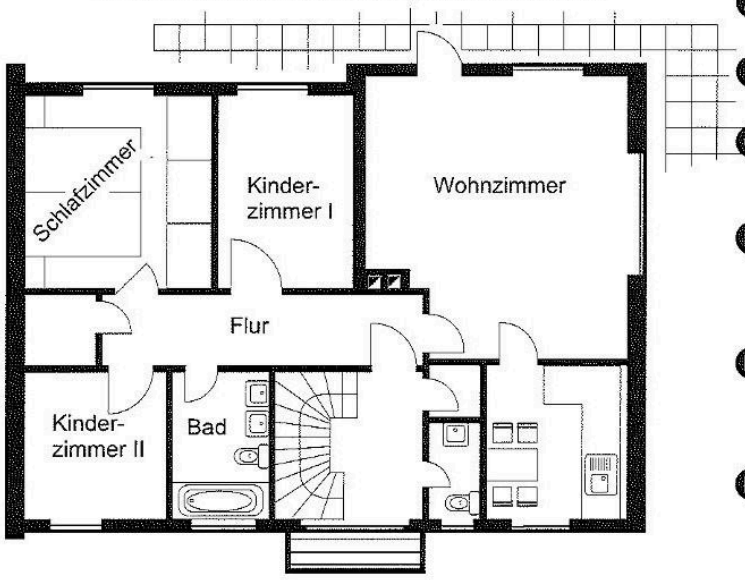

A Wie lang und wie breit ist das Kinderzimmer I?

B Ist das Kinderzimmer I größer oder kleiner als Kinderzimmer II?

C Der Flur wird mit Teppichboden ausgelegt. Wie viele m² werden benötigt?

D Der Boden des Gäste WC wird mit Kacheln 30 cm x 30 cm gefliest. Wie viele Kacheln werden mindestens benötigt?

E An die fensterlose Wand des Wohnzimmers soll eine Schrankwand eingebaut werden. Wie breit kann diese Schrankwand höchstens sein?

F Wie breit können die beiden Nachttische werden, wenn die beiden Betten jeweils 1 m breit sind?

Station

E

Geometrische Körper im Alltag

Kreuze den Körper an, den du in den Abbildungen entdecken kannst. Aus den Kennbuchstaben der richtigen Antworten ergibt sich ein Lösungswort.

A

L Kegel
N Zylinder

B
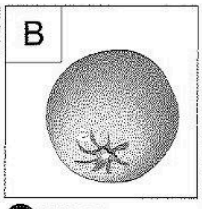
O Würfel
I Kugel

C

S Kugel
N Kegel

D
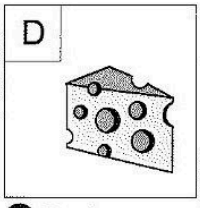
C Quader
K Prisma

E
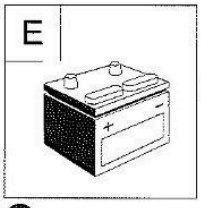
S Quader
H Würfel

F
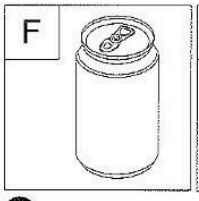
K Kegel
D Zylinder

G
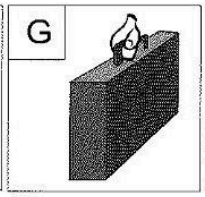
R Quader
I Würfel

H

A Pyramide
D Kegel

I

L Quader
E Pyramide

J

O Kegel
L Zylinder

Lösungswort:

A	
B	
C	
D	
E	
F	
G	
H	
I	
J	

Angaben zu den Urhebern und Lizenzbedingungen der einzelnen Bestandteile dieses Dokuments finden Sie unter
https://www.tutory.de/entdecken/dokument/stationenlernen-mathematik-5-xviii

Angaben zu den Urhebern und Lizenzbedingungen der einzelnen Bestandteile dieses Dokuments finden Sie unter
https://www.tutory.de/entdecken/dokument/stationenlernen-mathematik-5-xviii