# Test 2 zum Thema: Ähnlichkeit

| Notenspiegel | | | | | | | | | | | | | | | |
|---|---|---|---|---|---|---|---|---|---|---|---|---|---|---|---|
| Notenpunkte | 1 | 2 | 3 | 4 | 5 | 6 | 7 | 8 | 9 | 10 | 11 | 12 | 13 | 14 | 15 |
| Punkte | 5 | 6 | 7 | 8 | 9 | 10 | 11 | 12 | 12 | 13 | 14 | 15 | 16 | 17 | 17 |

Punkte: / 17 Note

① Die folgenden Figuren wurden vergrößert oder verkleinert. / 8

a) Ergänze die fehlenden Seitenlängen.

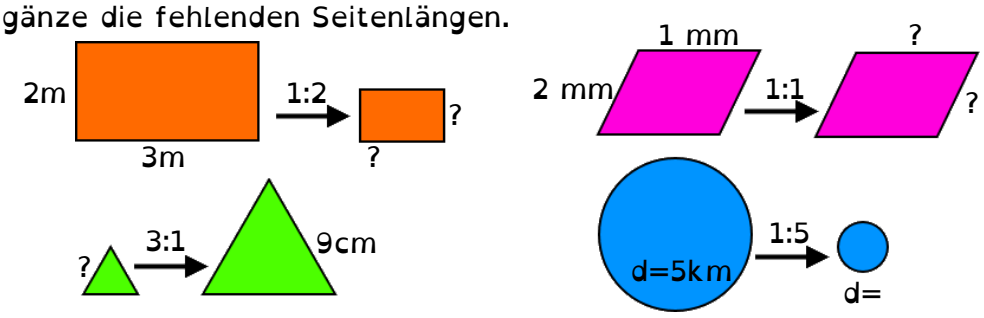


b) Ergänze die fehlenden Maßstäbe

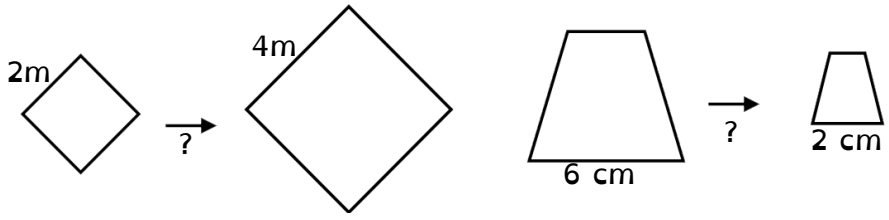


② Bei Modelleisenbahnen gibt es verschiedene Maßstäbe. / 3

**Eine davon ist H0. Ihr Maßstab ist 1:80**

a) Handelt es sich bei H0 um eine Vergrößerung oder Verkleinerung?

b) Der ICE3 ist die modernste Bahn in Deutschland. Der Zug ist $200\text{m}$ lang. Wie lang ist der Zug in einer H0-Modelleisenbahn?

③ Vergrößere den Pfeil im Maßstab 2:1 mithilfe der zentrischen Streckung. Tipp: Das Streckungszentrum $Z$ ist bereits eingezeichnet. / 6

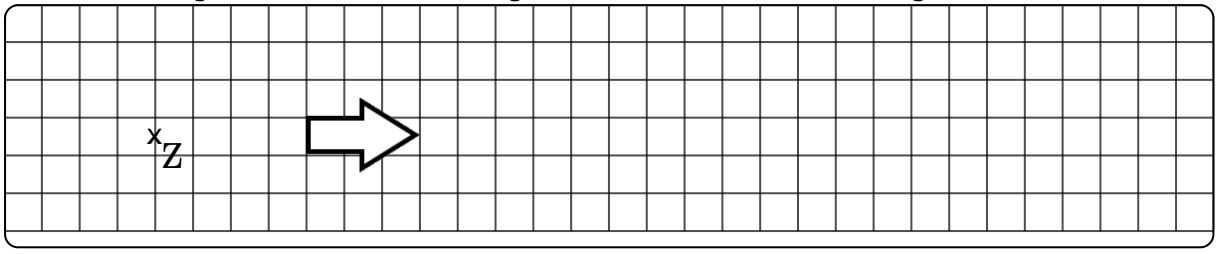




Angaben zu den Urhebern und Lizenzbedingungen der einzelnen Bestandteile dieses Dokuments finden Sie unter
https://www.tutory.de/entdecken/dokument/test-ahnlichkeit-2