Name: Test: Alkane und ihre Nomenklatur B 05.06.2021

① **Zeichne** folgende Moleküle. / 6½

a) 4–Ethyl–2,4–dimethyloctan
b) 2,3–Dimethylpentan
c) 3–Ethyl–2–methylhexan

② **Benenne** folgende Moleküle. / 5½

a)

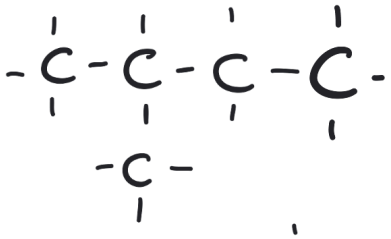

b)

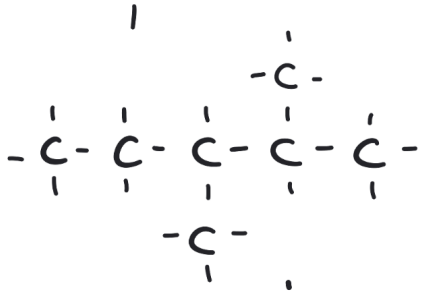

c)

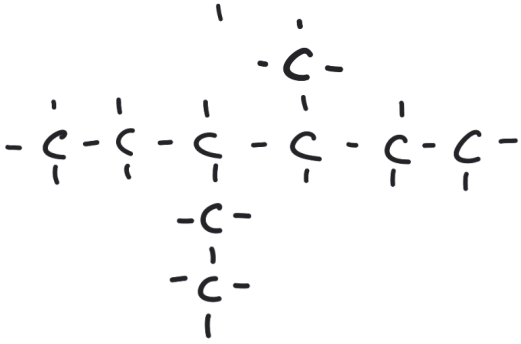

a) _____

b) _____

c) _____

Punkte: / 12	Note	Unterschrift

Angaben zu den Urhebern und Lizenzbedingungen der einzelnen Bestandteile dieses Dokuments finden Sie unter
https://www.tutory.de/entdecken/dokument/test-alkane-und-ihre-nomenklatur-b