erledigt ☐ kontrolliert ☐

Spiegeln im Gitternetz

Spiegele das vorgegebene Muster nacheinander an allen eingezeichneten Achsen. Du kannst dein Bild farbig anlegen.

A

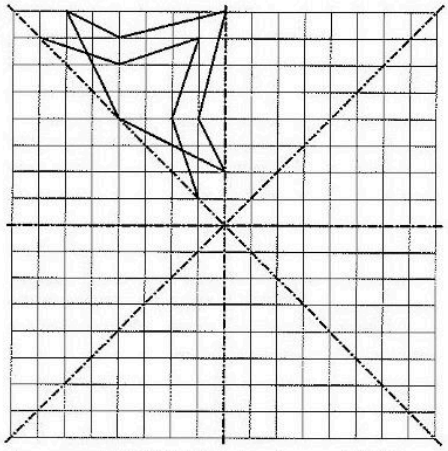

B

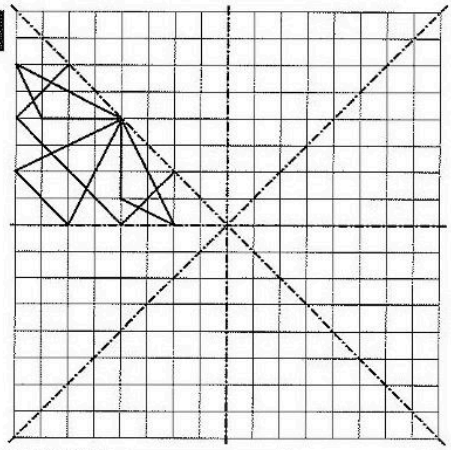

erledigt ☐ kontrolliert ☐

Ecken geometrischer Körper

Bestimme die Anzahl der Ecken der abgebildeten Körper. Die Buchstaben der richtigen Lösungen ergeben das Lösungswort.

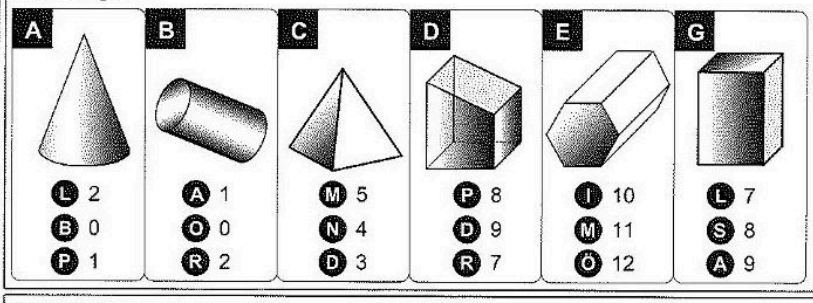

Lösungswort:

A ☐ B ☐ C ☐ D ☐ E ☐ G ☐

erledigt ☐ kontrolliert ☐

Rechendiktat

Rechne die Aufgaben aus und schreibe die Lösungen in die freien Felder unter den Aufgaben.

A	B	C	D
11 15 23	12 14 28	9 37 21	19 17 26
kleinste Zahl mal größte Zahl minus mittlere Zahl	mittlere Zahl mal größte Zahl plus kleinste Zahl	größte Zahl mal mittlere Zahl minus kleinste Zahl	größte Zahl mal mittlere Zahl minus kleinste Zahl

erledigt ☐ kontrolliert ☐

Plustreppen

Vervollständige die Plustreppen so, dass zwei Zahlen in Feldern, die nebeneinander stehen, zusammengezählt immer die Zahl im oberen Nachbarfeld ergeben.

A

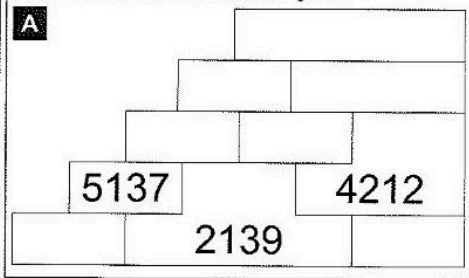

B

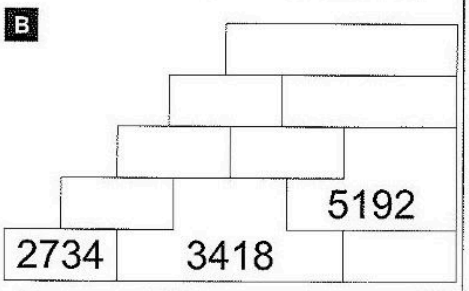

erledigt ☐ kontrolliert ☐

Division mit Rest

Welche Zahl ist mit Rest geteilt worden?

A

:	16
	5 R 12
	6 R 3
	9 R 5
	8 R 15
	13 R 4

B

:	14
	7 R 6
	5 R 1
	12 R 5
	9 R 5
	13 R 9

C

:	17
	6 R 11
	8 R 3
	9 R 14
	5 R 16
	12 R 4

D

:	13
	7 R 6
	9 R 8
	11 R 2
	15 R 1
	20 R 8

Angaben zu den Urhebern und Lizenzbedingungen der einzelnen Bestandteile dieses Dokuments finden Sie unter
https://www.tutory.de/entdecken/dokument/wochenplan-mathematik-4-xvii

Angaben zu den Urhebern und Lizenzbedingungen der einzelnen Bestandteile dieses Dokuments finden Sie unter
https://www.tutory.de/entdecken/dokument/wochenplan-mathematik-4-xvii